3) Beschreibe deine Entdeckung

Der Prozentstreifen

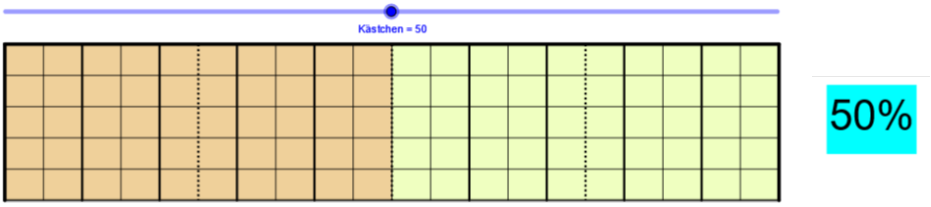

Beantwortung der Aufgaben (3a) bis (3d)

4) Bestimme den Anteil.

Bearbeitung der Aufgaben (4a) bis (4f)

a)

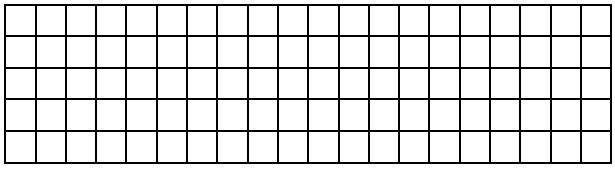

Prozent

b)



Prozent

c)



d)

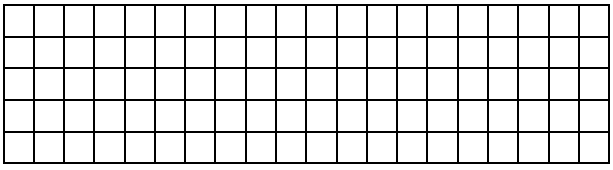

e)



f)



5) Vorgangsbeschreibung

Der Prozentstreifen ist ein besonderes Streifendiagramm. Beschreibe wie man einen Prozentstreifen erstellt, indem du zu folgenden Angaben einen Streifendiagramm entwickelst.

Ein Restaurant untersucht, welche Gerichte von den Kunden am meisten bestellt werden. Dabei wurden folgende Werte ermittelt:

Schnitzel 25 % Pizza: 40 % Salat: 15 % Sonstiges: 20 %