Kreuzen Sie die richtigen Aussagen an.	**Rechteck**	**Quadrat**	**Parallelo-gramm**	**Trapez** 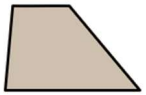	**Symmetrisches Trapez**	**Drache** 	**Raute** 	**Viereck allgemein** 
Es gibt mindestens eine Symmetrieachse.								
Die Figur ist punktsymmetrisch.								
Gegenüberliegende Winkel sind gleich groß.								
Benachbarte Winkel sind gleich groß.								
Alle Winkel in den Ecken sind gleich groß.								
Die Diagonalen stehen senkrecht aufeinander.								
Die Diagonalen sind gleich lang.								
Die Diagonalen halbieren sich.								
Es gibt nur ein Paar parallele Seiten.								
Es gibt zwei Paar Seiten, die je parallel zueinander sind.								
Es gibt nur ein Paar gleich lange Seiten.								
Es gibt zwei Paar Seiten, die jeweils gleich lang sind.								
Alle vier Seiten sind gleich lang.								